Anwendung: ZE · E, HZE · E mit Zehner- und Hunderterübergang

❶ Ergänze die fehlenden Ziffern.

	9	4	·	4			4	7	·	5			3	6	·	8		3	5	9	·	2		1	7	4	·	5
		3		6					3					2							1							0

❷ Marie kauft 6 Laugenbrezeln.
Wie viel Cent (Euro) muss sie bezahlen?
Überschlage zunächst.

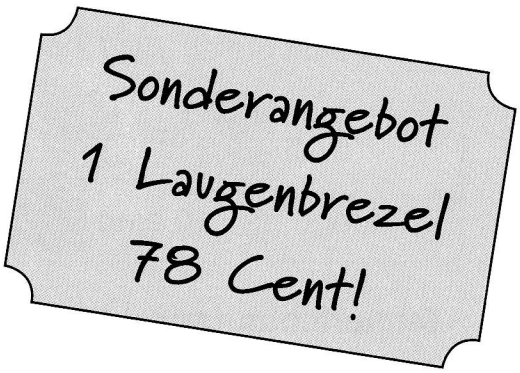

Überschlag: _____

Rechnung:

			·		

Antwort: _____

❸ Ein Elektrogroßmarkt wird beliefert.
Wie viel Euro kostet die Lieferung? Überschlage zunächst.

8 Drucker zu je 69 €	2 Computer zu je 498 €	4 Waschmaschinen zu je 237 €	7 Digitalkameras zu je 142 €
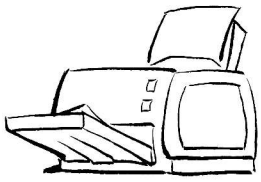			

Ü: _____ _____ _____ _____

Überschlag insgesamt: _____

Rechnung:

			·						·						·							·							
																											+		

Antwort: _____

© Persen Verlag